BALADES LUDIQUES
POUR PETITS ET GRANDS

Assigny



Visiter,
se balader,
s'amuser !

Cette opération est cofinancée par l'Union européenne. L'Europe investit dans les zones rurales.

OFFICE DE TOURISME DU
GRAND SANCERROIS
Esplanade Porte César
18300 Sancerre
+33 2 48 54 08 21
accueil@tourisme-sancerre.com

Moyen | 3,6 km | 2 h 15

Assigny

Départ : Aire de pique-nique du Faît des Marnes
GPS : 47.434247N / 2.76877E

Carnet de route

Soyez vigilants avec vos enfants notamment sur les zones non piétonnes. Le parcours s'effectue sous votre entière responsabilité. La société Randoland et l'office de tourisme déclinent toute responsabilité en cas d'accident.

La balade débute à l'aire de pique-nique du Faît des Marnes ①.
S'engager sur la petite route qui monte en direction des réservoirs d'eau ②.
Revenir sur ses pas et au croisement prendre à droite. S'arrêter devant la croix ③.
Continuer jusqu'à la table d'orientation ④.
Emprunter le chemin qui descend jusqu'au prochain hameau ⑤.
Dans le hameau La Vièvre, rester toujours sur la route de gauche. Observer plus loin le pylône électrique sur la gauche, à proximité immédiate de la route ⑥.
Continuer tout droit. Peu après le chemin qui part sur la droite, chercher l'arbre remarquable à droite de la route ⑦.
Reprendre la route, au croisement poursuivre en montant à gauche. Dans le prochain hameau, observer la maison à droite de la route ⑧.
Continuer tout droit puis s'engager à gauche sur la route qui monte pour retourner au point de départ.
Fin de la balade.

Infos locales

À voir
- les Granges Pyramidales.
- le Château de la Vallée (XVIe) privé qui a inspiré A. Fournier pour la fête étrange.

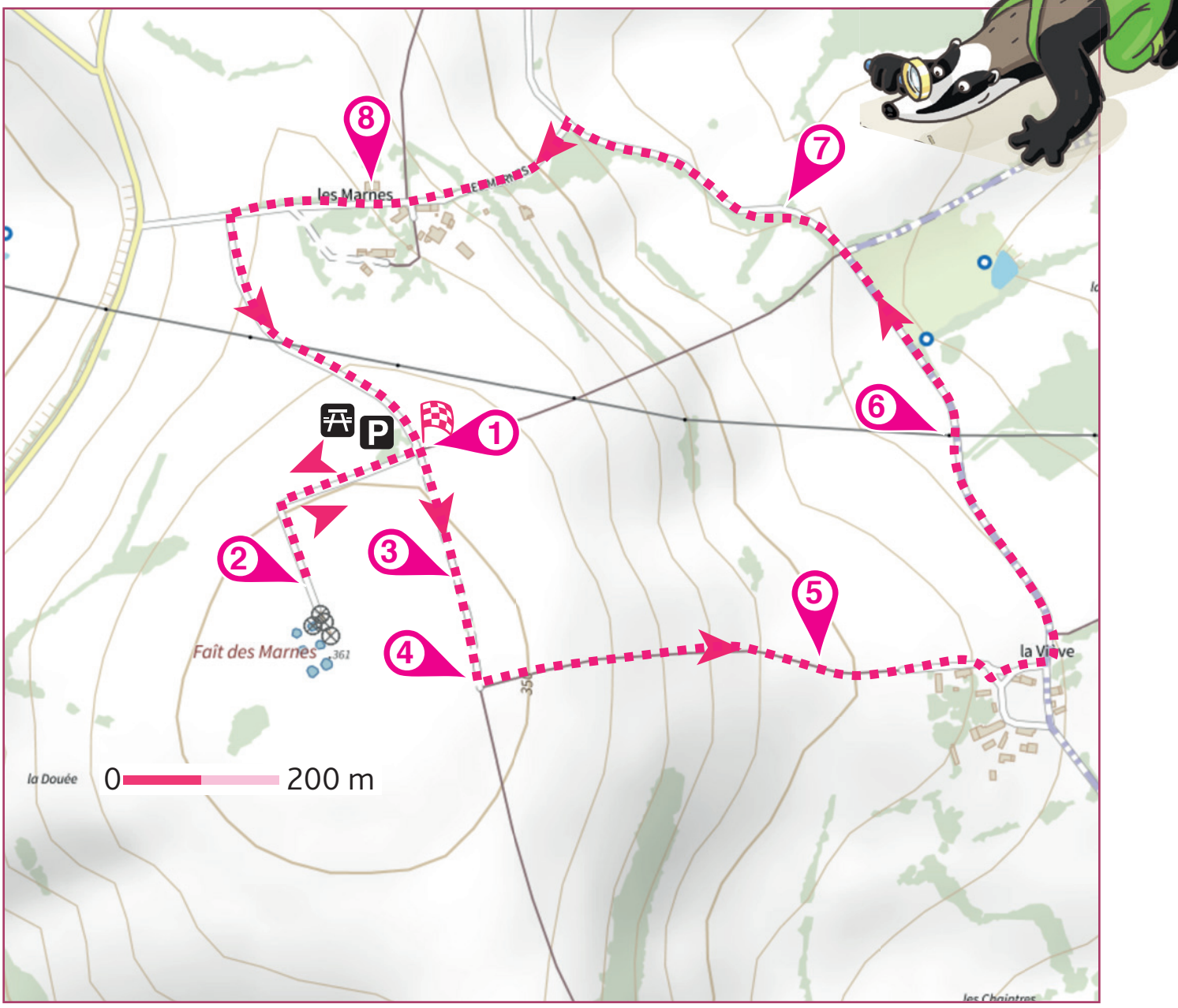

© Randoland 2021 - © IGN 2022 Autorisation : n° 193819-250352

4-6 ans

Assigny

Quand on y regarde de près, les insectes sont fascinants et très utiles. Ils servent par exemple de nourriture à certains animaux (les oiseaux, les hérissons, etc.), ils permettent à certaines plantes de pousser en transportant leurs graines, ils décomposent aussi les déchets organiques. Bref, ils sont indispensables à la vie sur terre !

Utilise le dessin ci-dessous et les informations fournies sur la page suivante pour découvrir quel insecte a fasciné l'inspecteur Rando au cours d'une de ses nombreuses balades.

En fin de parcours, note son numéro dans la case prévue pour la réponse.

Tu pourras vérifier ta réponse à l'Office de Tourisme ou sur le site www.randoland.fr.

© Randoland 2022. Illustrations : Armelle Drouin - AdobeStock - Freepik.com - Pexels

Tu peux te rendre à l'office de tourisme ou sur le site www.randoland.fr pour vérifier ta réponse (code énigme 1801401P).

1 araignée ; 2 moustique ; 3 papillon ; 4 abeille ; 5 libellule ; 6 sauterelle ; 7 coccinelle ; 8 chenille ; 9 escargot.

Cette page est protégée. Pour acheter le fichier non protégé, rendez-vous sur www.randoland.fr

[illegible] éliminer. A la fin, il n'en restera qu'un : celui que tu cherches !

1 L'aire de pique-nique

Quel [illegible] un de ceux qui sont dessinés sur le panneau « Pays Fort, [illegible] » ?



2 Les citernes

De quelle couleur sont peints ces immenses réservoirs d'eau potable ?

3 La croix

Quel nuage de chiffres correspond à l'année inscrite [illegible] croix ?



4 La table d'orientation

Demande à un « grand » de te lire le nom de la commune la plus au nord. Quel son entends-tu en fin de mot ?

5 [illegible]

Quel animal ci-dessous nous permet de manger du fromage ?

6 Le pylône

Combien de gros câbles électriques sont reliés aux côtés de ce poteau ?



7 L'arbre

Quelle feuille correspond à cet arbre ? S'il n'y en a pl[illegible] ?

8 La maison

Observe les sommets des toits de cette grande bâtisse. Quelle silhouette d'animal correspond à celui qui y est sculpté ?



Assigny

ÉNIGME

On appelle la Terre la planète bleue parce qu'elle est couverte d'eau à 71 % (mers, océans, etc.). Cela veut dire qu'on ne manque pas d'eau. Pourtant, dans certaines parties du monde, la population n'a pas accès à l'eau potable alors qu'elle est indispensable à la vie. L'inspecteur Rando est étonné d'entendre ça car il sait qu'il existe des réserves souterraines gorgées d'eau alimentant des puits et des sources. Tous les humains devraient donc pouvoir profiter de cette ressource.

La réserve souterraine à laquelle l'inspecteur Rando a pensé a un drôle de nom. À toi de jouer pour découvrir le mot que l'inspecteur Rando t'a volontairement caché.

À chaque point indice, lis bien les indications de la page suivante et reporte tes réponses sur la grille de bas de page.

Tu disposes du plan ci-dessous. À l'emplacement des pastilles numérotées, lis les indications qui te permettront de résoudre l'énigme principale.

À la fin de ta balade, rends-toi à l'office de tourisme ou sur le site randoland.fr pour vérifier ta réponse.

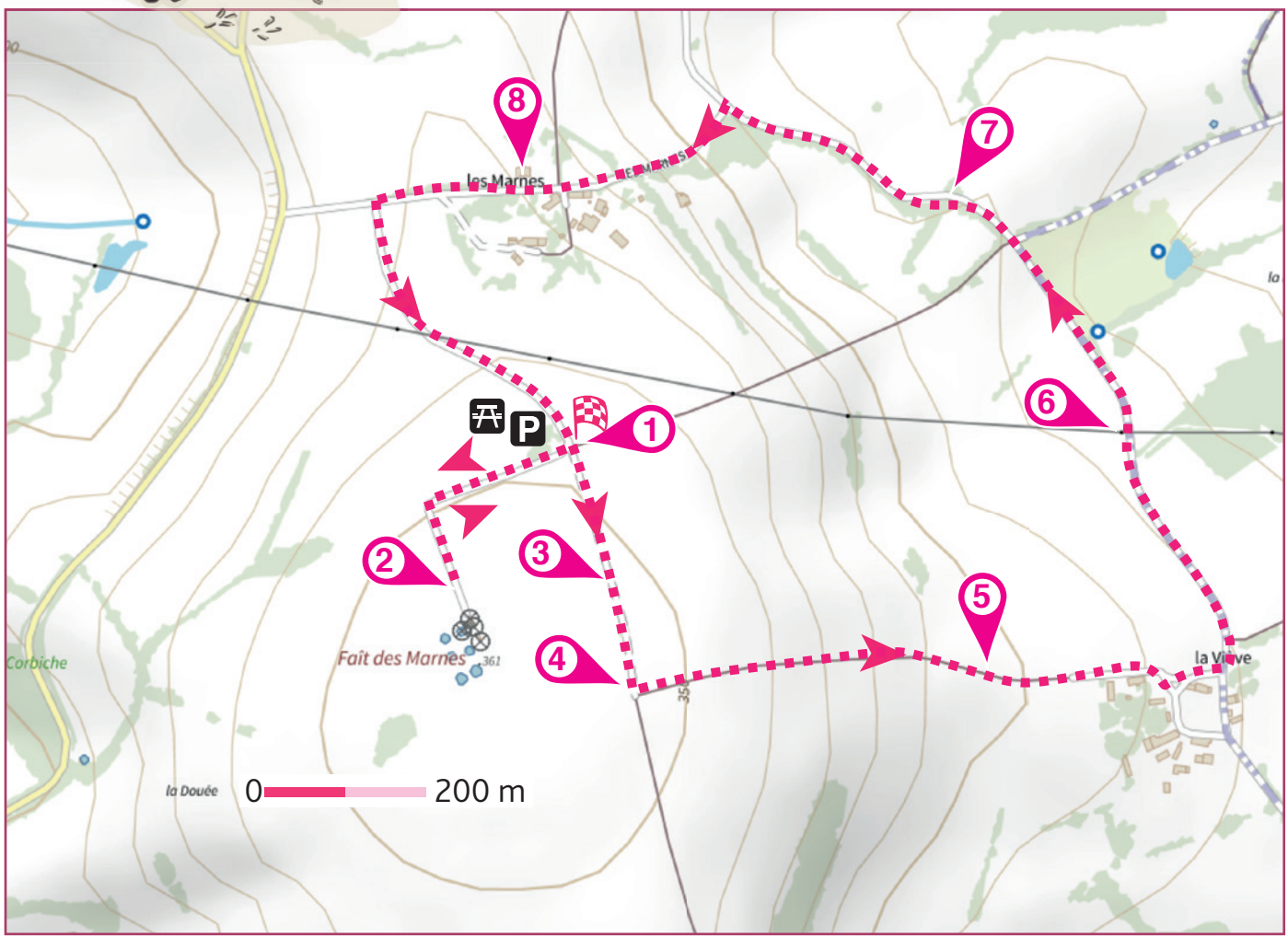

© Randoland 2022- IGN 2022

Cette page est protégée. Pour acheter le fichier non protégé, rendez-vous sur www.randoland.fr

[illegible] la grille de bas de page les réponses trouvées en face des nombres correspondants.

1 L'aire de pique-nique

D'après [illegible] « [illegible] Sancerrois » [illegible] trois oiseaux aiment les endroits humides. Mais [illegible] seul [illegible] en photo [illegible] lequel ?

[illegible] le prénom présent sous [illegible] dans la grille.

2 Les citernes

Quelle est la couleur des réservoirs d'eau ? Choisis dans la liste ci-dessous le mot qui a cette même couleur :

[illegible] – [illegible] – [illegible]ERRE

Inscris ce mot dans la grille.

3 La croix

Quel mot est gravé au-dessus de « Deo » ?

Remets dans l'ordre les lettres des cases colorées.

Reporte le mot découvert dans la grille.

4 La table d'orientation

À quelle altitude se trouve cette table ? Classe dans l'ordre croissant (du plus petit au plus grand) les chiffres qui la composent.

☐ < ☐ < ☐

Note le chiffre de la case bleutée, en lettres, dans la grille.

Ex. : 601 = 0 < 1 < 6 = SIX

5 En chemin

L'inspecteur Rando a demandé à deux amis ce qui consomme le plus d'eau pour se laver.

CAMILLE : Une douche utilise plus d'eau.

OPHÉLIE : Faux. C'est le bain.

Note le prénom de celle qui a raison dans la grille.

[illegible]

Quand l'un consomme 150 litres, l'autre n'utilise que 80 litres d'eau environ.

6 Le pylône

Combien de gros câbles électriques sont reliés aux côtés de [illegible] ? [illegible] le nombre par la lettre qui a cette position dans l'alphabet.

Ex. : 1 → A ; 2 → B ; [illegible]

Dans l'alphabet, quelle lettre est juste avant celle que tu viens de trouver ?

Inscris ta réponse dans la grille.

7 L'arbre

Trouve le nom de cet arbre grâce aux photos de fruits ci-dessous. S'il n'en a plus, regarde au sol !

Reporte le nom de cet arbre dans la grille.

8 La maison

Sur le sommet des toits, plusieurs animaux sont visibles. Quelle empreinte ci-dessous correspond à l'un de ces animaux ?

Note le prénom présent sous la bonne empreinte dans la grille.

Grille réponse — Circuit n°180140101M

Remets en ordre les caractères des cases colorées pour trouver le nom donné à ces réserves souterraines d'eau.

Ta réponse : une [illegible]

+ 10 ans

Assigny

ÉNIGME

Il fait sombre aujourd'hui chez l'inspecteur Rando car une panne électrique frappe son village. Connu pour être l'inspecteur le plus doué de son temps, il est par contre incapable de retrouver où il a rangé les bougies pour s'éclairer. Tant pis, il fera avec celle qui avait été oubliée dans la cuisine.

Cette mésaventure lui confirme une chose : l'électricité est devenue un indispensable de notre quotidien. « Mais à qui doit-on cette invention ? », s'interroge-t-il. Deux hommes s'opposent : Thomas Edison, père du courant continu (courant produit par des batteries, des piles, etc.), et Nikola Tesla, père du courant alternatif (courant produit par des centrales électriques). Dans cette guerre des courants, un homme s'est rapproché de Tesla, devenant son ami mais aussi producteur de courant alternatif.

L'inspecteur Rando a besoin de ton aide pour retrouver l'identité de cet homme dans cette nouvelle enquête électrisante !

LISTE DES HOMMES

- **Zénobe GRAMME,** né le 4 avril 1826
- **Joseph SWAN,** né le 31 octobre 1828
- **Gaston PLANTÉ,** né le 22 avril 1834
- **Antonio PACINOTTI,** né le 7 juin 1841
- **Marcel DESPREZ,** né le 12 décembre 1843
- **George WESTINGHOUSE,** né le 6 octobre 1846
- **Edwin James HOUSTON,** né le 9 juillet 1847
- **Galileo FERRARIS,** né le 30 octobre 1847
- **Elihu THOMSON,** né le 29 mars 1853

Tu disposes du plan ci-dessous. À l'emplacement des pastilles numérotées, lis les indications qui te permettront de résoudre l'énigme principale.

À la fin de ta balade, rends-toi à l'office de tourisme ou sur le site randoland.fr pour vérifier ta réponse.

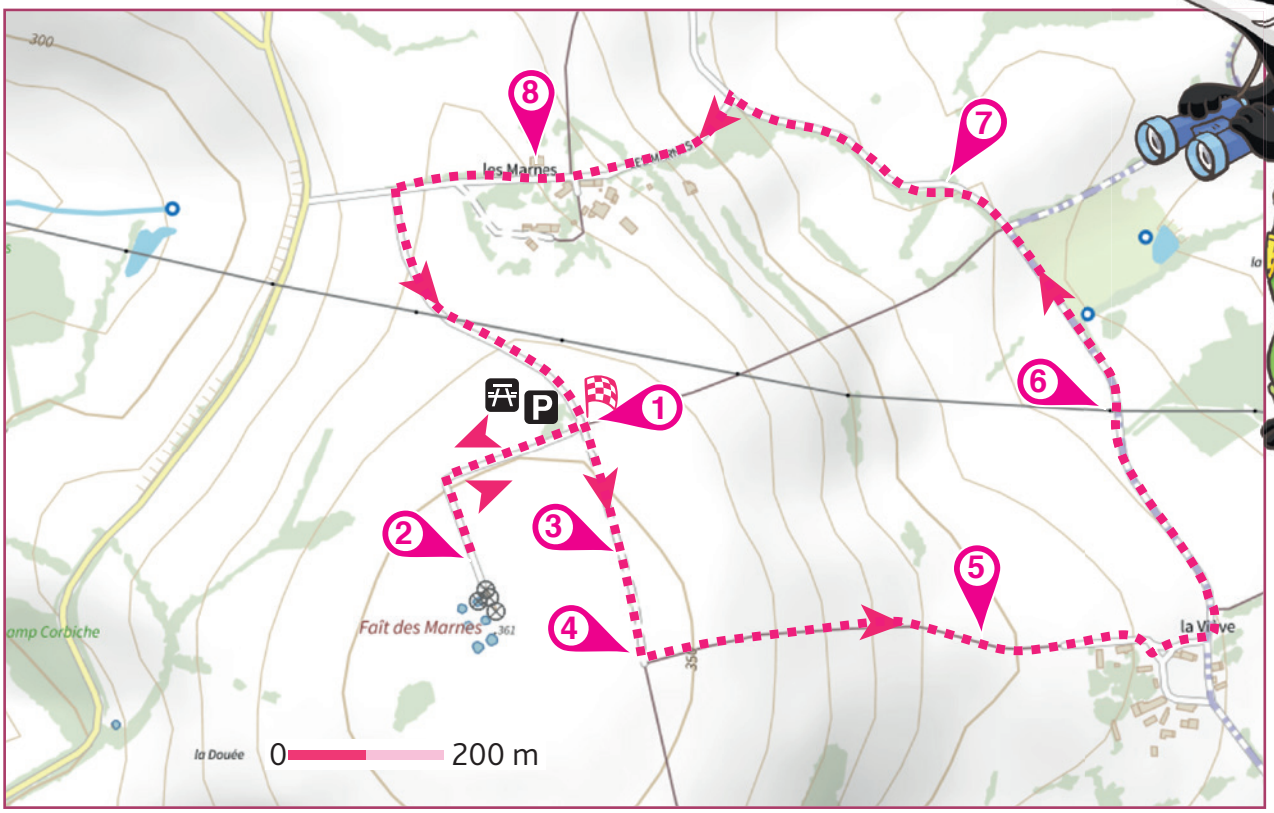

© Randoland 2022 - © IGN 2022

CETTE PAGE EST PROTÉGÉE. POUR ACHETER LE FICHIER NON PROTÉGÉ, RENDEZ-VOUS SUR WWW.RANDOLAND.FR

[illegible] attentivement les indications fournies. Elles te permettront de résoudre l'énigme posée au verso de cette page.

1 L'aire de pique-nique

Quelle est l'altitude du point le plus haut sur le panneau « Pays-Fort, Sancerrois » ? Additionne tous les chiffres qui la composent.
Dans quelle cible retrouves-tu ce score ?

Ex. : 415 = 4 + 1 + 5 = 10

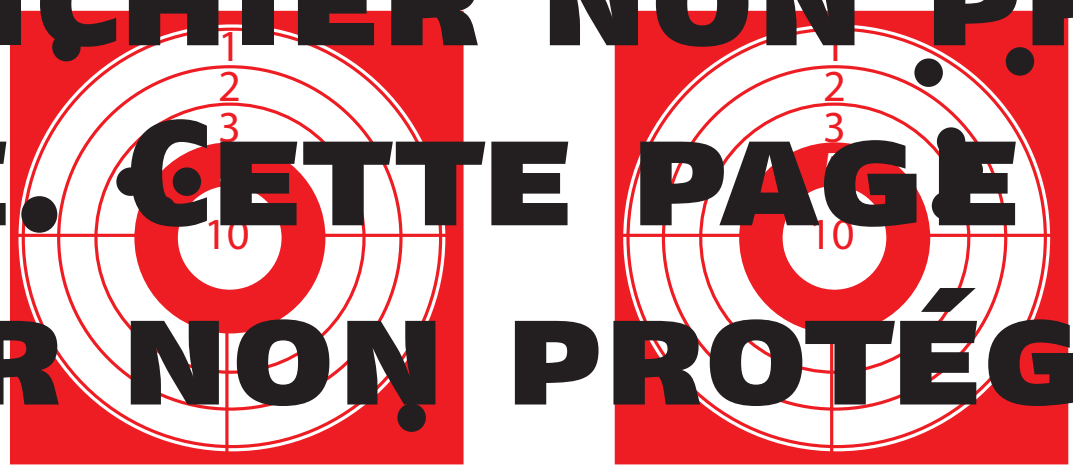

JUIN JUIL

Le mot inscrit sous la bonne cible désigne un mois [illegible]

2 Les citernes

De quelle couleur sont les citernes ? Le mot inscrit sous le bon crayon est l'anagramme d'un prénom.

CAMER [illegible] TANGOS

Supprime de la liste l'homme qui porte ce prénom.

[illegible]

UN PEU D'AIDE

Une anagramme est un mot dont les lettres, placées dans un autre sens, peuvent former un autre mot.
Ex. : AIMER devient MARIE.

3 La croix

Dans le mot gravé au-dessus du Christ, repère les positions occupées par les lettres permettant d'écrire le mot [illegible]. Additionne-les.

Ex. : USAGE = 5 + 3 + 1 = 9

Retire de la liste l'homme dont le jour de naissance est le plus proche de ton résultat.

UN PEU D'AIDE

Dans l'exemple donné avec « usage », le E est en 5e position dans le mot, le A en 3e, le U en 1er. En additionnant ces lettres qui forment maintenant le mot EAU, on obtient comme résultat 9.

4 La table d'orientation

Observe bien la table pour compléter cette inscription à l'aide des lettres suivantes :

A B C D E E E E E E E F I
[illegible] L [illegible] S T V

Sur le dessin, les deux cheminées représentent [illegible] ce n'est pas clairement indiqué ici, elle dépend de la commune de [illegible] - sur - Loire.

Le nom de l'homme recherché ne commence pas par la lettre que tu as en trop.

5 En chemin

Le soleil, le vent et l'eau sont des sources d'énergie inépuisables. Quel nom porte celle qui dépend du vent ?

GEORGE : On l'appelle l'énergie hydraulique.
GALILÉE : Non, c'est l'énergie éolienne.

L'homme qui porte le même prénom que la personne qui a raison est à [illegible] la liste.

6 Le pylône

Combien de gros câbles électriques sont reliés aux côtés de ce poteau ? Si tu en enlèves 3, [illegible] le nombre découvert par le mois de l'année correspondant.

Ex. : 1 → janvier, 2 → février, etc.

Un homme est né ce mois-là. Raye-le de la liste !

7 L'arbre

Quel est le nom de cet arbre ? S'il n'y a plus de feuilles ou de fruits, [illegible] t'aider. Sachant qu'une consonne vaut + 4 et une voyelle – 4, calcule sa valeur.

Ex. : TRONC = 4 + 4 – 4 + 4 + 4 = 12

[illegible] l'homme dont le jour de naissance est identique à ton résultat.

8 [illegible]

Observe les animaux sur le sommet des toits !
Si ce sont des félins, tu peux rayer de la liste le dernier homme né une année paire. Si ce sont des oiseaux, alors tu peux rayer celui né une année impaire.

Circuit n° 180 [illegible]

Tu devrais avoir retrouvé le prénom et le nom de l'ami de Nicola Tesla.

Ta réponse : ....